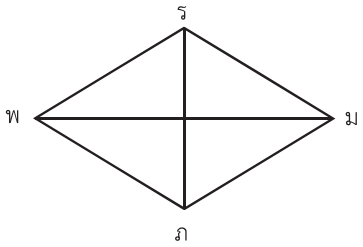
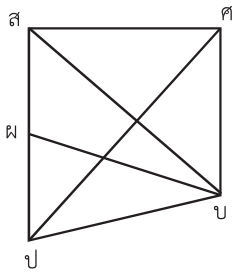
## แบบฝึกหัด 7.5

**1.** จากรูปสี่เหลี่ยมที่กำหนดให้ เขียนชื่อเส้นทแยงมุม

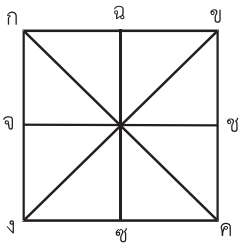
1)



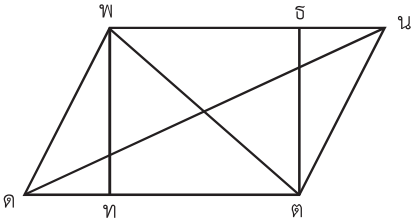

2)




3)




4)






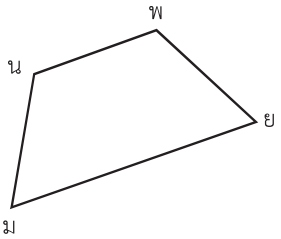

6118027-□□□□□□□□ 7c-□□.indd 122 11/26/18 2:33 PM

## 2. ลากเส้นทแยงมุม บอกชื่อเส้นทแยงมุม

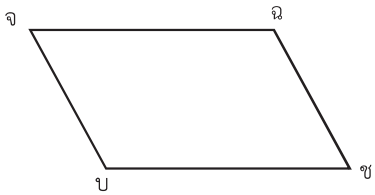
1)



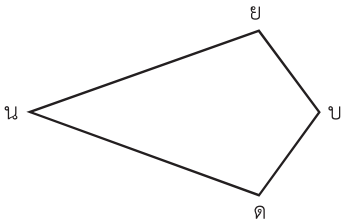

2)




3)




4)

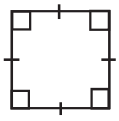
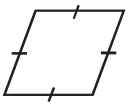
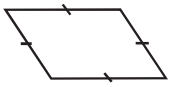
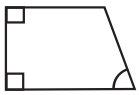
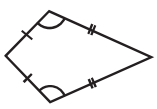







6118027-□□□□□□□□ 7c-□□.indd 123 11/26/18 2:33 PM

**3.** เขียน ✓ ในช่องว่างที่มีลักษณะสอดคล้องกับเส้นทแยงมุมของรูปสี่เหลี่ยมที่กำหนดให้

| ชนิดของรูปสี่เหลี่ยม | เส้นทแยงมุมยาวเท่ากัน | เส้นทแยงมุมแบ่งครึ่งซึ่งกันละกัน | เส้นทแยงมุมตัดกันเป็นมุมฉาก |
|---|---|---|---|
|  รูปสี่เหลี่ยมจัตุรัส | | | |
|  รูปสี่เหลี่ยมผืนผ้า | | | |
|  รูปสี่เหลี่ยมขนมเปียกปูน | | | |
|  รูปสี่เหลี่ยมด้านขนาน | | | |
|  รูปสี่เหลี่ยมคางหมู | | | |
|  รูปสี่เหลี่ยมรูปว่าว | | | |



6118027-□□□□□□□□7c-□□.indd 124 11/26/18 2:33 PM