# แบบฝึกหัด 6.6

## 1 เขียนคำตอบในช่องว่าง

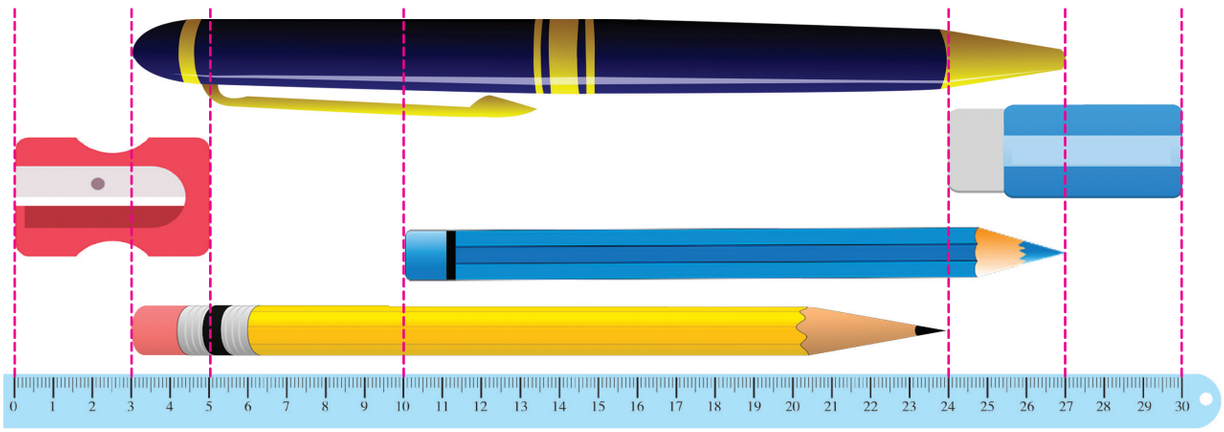

1) ปากกา ยาว ..... เซนติเมตร

2) ดินสอ ยาว ..... เซนติเมตร

3) ดินสอสี ยาว ..... เซนติเมตร

4) ยางลบ ยาว ..... เซนติเมตร

5) กบเหลาดินสอ ยาว ..... เซนติเมตร

6) ปากกา ยาว ..... ดินสอ อยู่ ..... เซนติเมตร

## 2 เขียนคำตอบในช่องว่าง

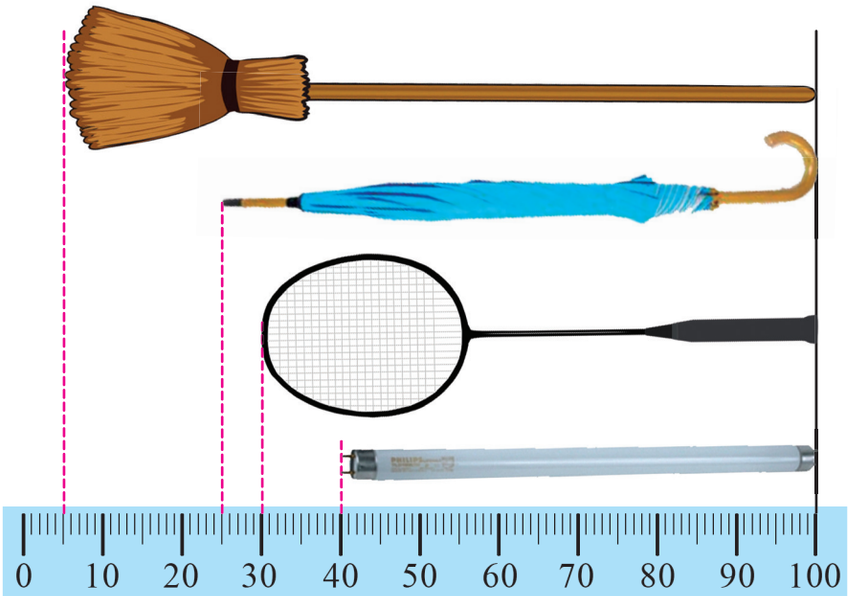


1) ไม้กวาด ยาว ..... เซนติเมตร

2) หลอดไฟ ยาว ..... เซนติเมตร

3) ร่ม ยาว ..... เซนติเมตร

4) ไม้แบดมินตัน ยาว ..... เซนติเมตร

5) ไม้กวาดยาวกว่าร่ม อยู่ ..... เซนติเมตร

6) ไม้แบดมินตันสั้นกว่า ..... อยู่ ..... เซนติเมตร

## 3 เขียนคำตอบในช่องว่าง




1) ผู้ชนะอันดับที่ 1 สูง ..... เซนติเมตร

2) ผู้ชนะอันดับที่ 2 สูง ..... เซนติเมตร

3) ผู้ชนะอันดับที่ 3 สูง ..... เซนติเมตร

ถ้าผู้ชนะอันดับที่ 2 และที่ 3 ยืนบนแท่นระดับเดียวกันกับผู้ชนะอันดับที่ 1

4) ศีรษะของผู้ชนะอันดับที่ 2 อยู่ที่ระดับ ..... เซนติเมตร

5) ศีรษะของผู้ชนะอันดับที่ 3 อยู่ที่ระดับ ..... เซนติเมตร