แบบฝึกหัด 6.2

1 เขียนคำตอบในช่องว่าง

1)

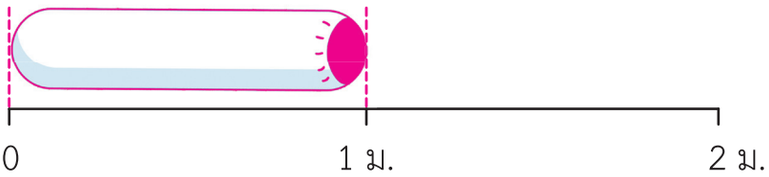

หมอนข้างยาว ..... เมตร

2)

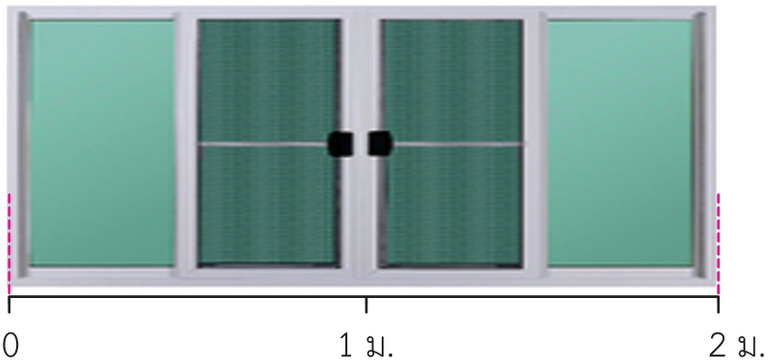

ขอบหน้าต่างกว้าง ..... เมตร

3)

โต๊ะยาว ..... เมตร

2 เขียนคำตอบในช่องว่าง

1)

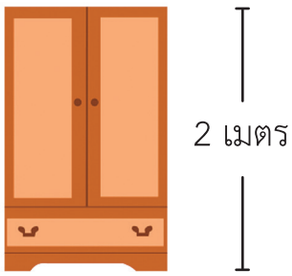

ตู้สูง ..... เมตร

2)



รถทัวร์ยาว ..... เมตร

3)

ยีราฟสูง ..... เมตร

4)



ม้านั่งยาว ..... เมตร

3 เขียนความยาวโดยประมาณของสิ่งต่างๆ ในช่องว่าง

1)

0 1 ม. 2 ม. 3 ม.

เสื่อ ยาวประมาณ ..... เมตร

2)

0 1 ม. 2 ม. 3 ม.

เตียง ยาวประมาณ ..... เมตร

3)



0 1 ม. 2 ม. 3 ม. 4 ม.

กระดาน ยาวประมาณ ..... เมตร

4 เขียนความสูงโดยประมาณของสิ่งต่างๆ ในช่องว่าง

1)

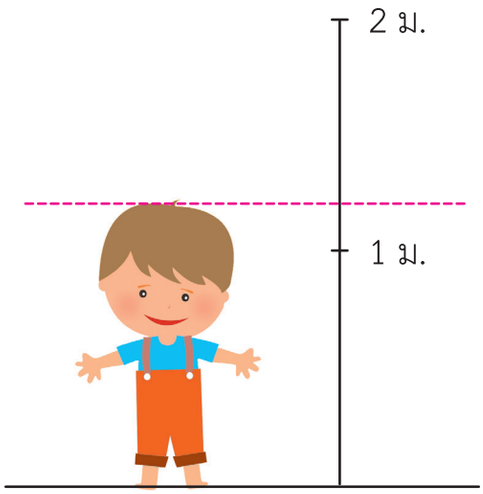

น้อง สูงประมาณ ..... เมตร

2)

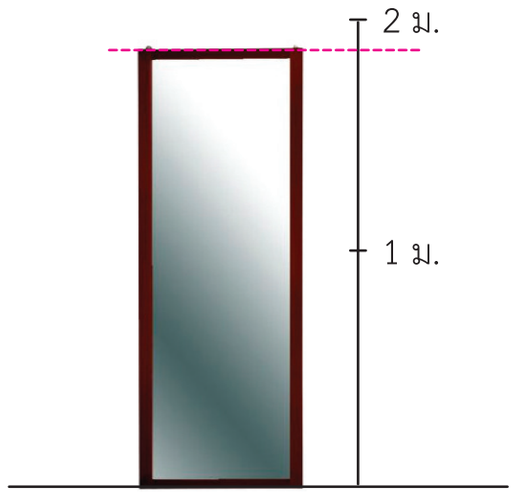

กระจก สูงประมาณ ..... เมตร

3)

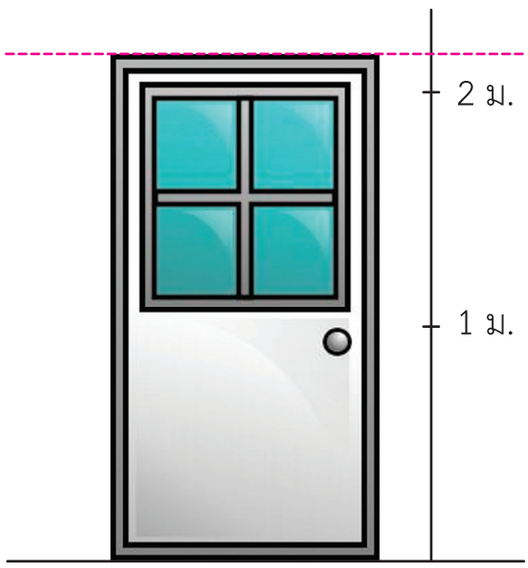

ประตู สูงประมาณ ..... เมตร