แบบฝึกหัด 6.1

1 วัดความยาวของสิ่งของในภาพ แล้วเขียนคำตอบในช่องว่าง

1)

ปากกายาว ..... เซนติเมตร

2)

ดินสอยาว ..... เซนติเมตร

3)

ไม้ขีดยาว ..... เซนติเมตร

4)

หลอดยาสีฟันยาว ..... เซนติเมตร

5)

ลวดเสียบกระดาษยาว ..... เซนติเมตร

6)

ไม้จิ้มฟันยาว ..... เซนติเมตร

2 เขียนความยาวโดยประมาณของสิ่งต่อไปนี้ในช่อง ☐

1)

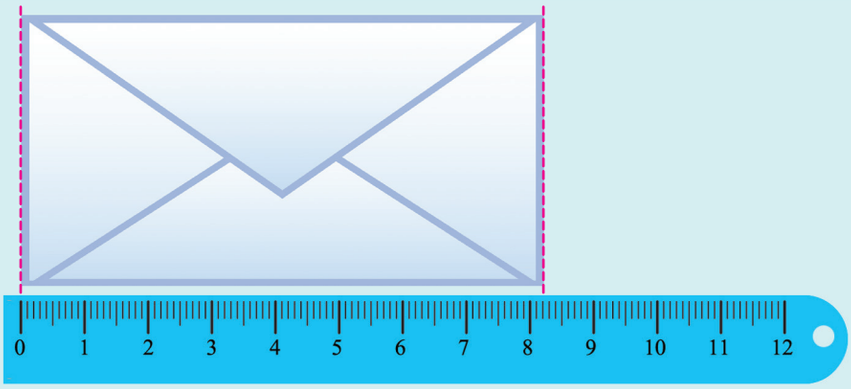

ซองจดหมายยาวประมาณ ☐ เซนติเมตร

2)

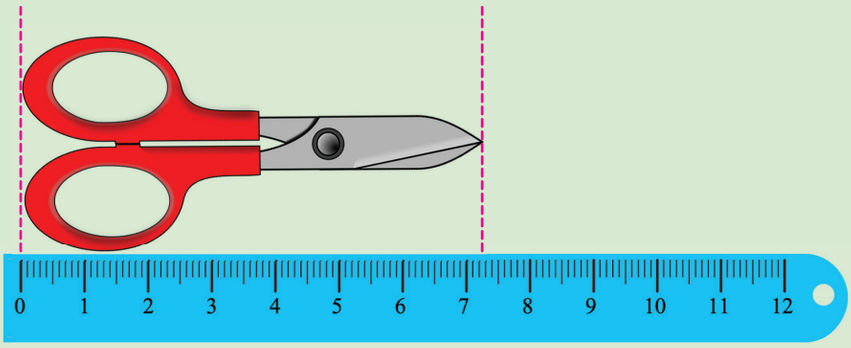

กรรไกรยาวประมาณ ☐ เซนติเมตร

3)

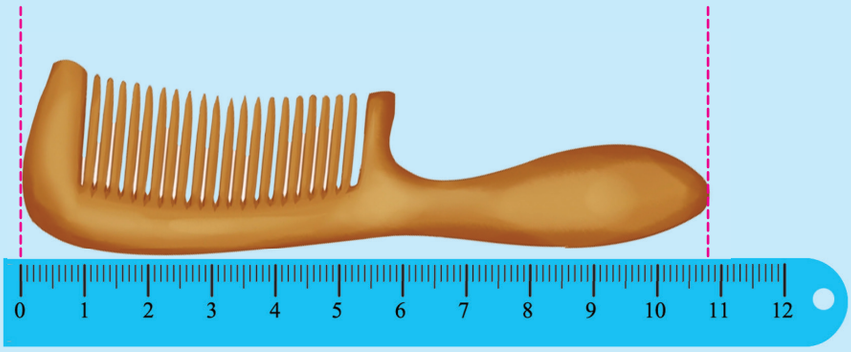

หวียาวประมาณ ☐ เซนติเมตร

3 วัดความสูงของสิ่งของในภาพ แล้วเขียนคำตอบในช่องว่าง

1)	2)	3)
แจกันสูง ..... เซนติเมตร	ขวดยาสูง ..... เซนติเมตร	แก้วน้ำสูง ..... เซนติเมตร

4 เขียนคำตอบในช่องว่าง

1) แก้วใบที่ 1 สูง ..... เซนติเมตร

2) แก้วใบที่ 5 สูง ..... เซนติเมตร

3) แก้วใบที่ ..... สูง 13 เซนติเมตร

4) แก้วใบที่ ..... และแก้วใบที่ ..... สูง 11 เซนติเมตร เท่ากัน

5 เขียนความสูงโดยประมาณในช่องว่าง

1)

ขวดหมึกสูงประมาณ ..... เซนติเมตร

2)

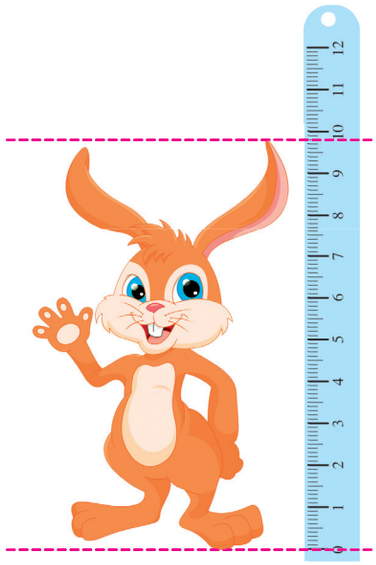

ตุ๊กตาสูงประมาณ ..... เซนติเมตร

3)

ขวดน้ำสูงประมาณ ..... เซนติเมตร

4)

แจกันสูงประมาณ ..... เซนติเมตร