แบบฝึกหัด 3 เรื่อง ทฤษฎีบทพีทาโกรัส (1)

หน่วยการเรียนรู้ที่ 1 เรื่อง ทฤษฎีบทพีทาโกรัส

แผนการจัดการเรียนรู้ที่ 3 เรื่อง ทฤษฎีบทพีทาโกรัส (1)

รายวิชา คณิตศาสตร์ รหัสวิชา ค22101 ภาคเรียนที่ 1 ชั้นมัธยมศึกษาปีที่ 2

คำชี้แจง ให้นักเรียนแสดงวิธีการแก้ปัญหาที่กำหนดให้ต่อไปนี้

ข้อที่ 1 จากรูปที่กำหนดให้ จงหาระยะ MN

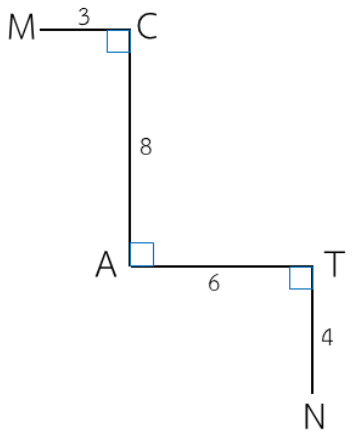

วิธีทำ .....

.....

.....

.....

.....

.....

.....

.....

.....

.....

.....

.....

.....

.....

.....

.....

.....

ข้อที่ 2 จากรูปที่กำหนดให้ จงหาระยะ MN

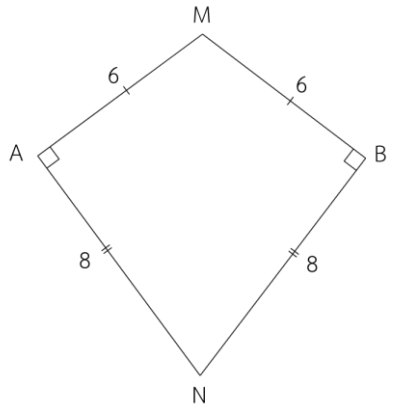

วิธีทำ .....

.....

.....

.....

.....

.....

.....

.....

.....

.....

.....

.....

.....

.....

.....

.....

.....

.....

ข้อที่ 3 จงหาพื้นที่ของรูปสามเหลี่ยม ABC

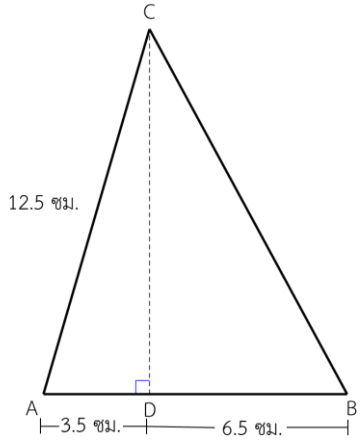

วิธีทำ .....

.....

.....

.....

.....

.....

.....

.....

.....

.....

.....

.....

.....

.....

.....

.....

.....

.....

.....

.....